۱-جمله ی زیر را با توجه به کلمه های داده شده تغییر دهید و بنویسید.

ماهر روز برای ظهور حضرت مهدی (عج) دعا می کنیم.

***شما:**----------

***من :** ----------

۲-زیر جمله های کامل خط بکشید و جمله های ناقص را کامل کنید.

تو جمعه نیامدی و غروب آن **نشستند.**

۳-برای موضوع روبه رو یک بند بنویس.

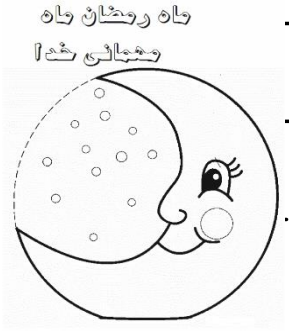



۴-کلمه های هم معنی را با کشیدن خطی به هم وصل کنید.

سعادتمند	ضعیف	نیازمند	لطیف
فقیر	خوشبخت	بی حال و ناتوان	نرم و خوشایند

۱-شکل را دسته بندی کنید و برای آن یک ضرب و دو تقسیم بنویسید.



--------- = --------- × ---------

--------- = --------- ÷ ---------

--------- = --------- ÷ ---------

۲- سپهر ۷ بسته ۲ تایی آب نبات ترش و ۶ بسته ی ۳ تایی آب نبات شیرین در ظرف گذاشته بود چند آب نبات ترش و شیرین در ظرف بود؟

۳-خط تقارن شکل های زیر را رسم کنید.

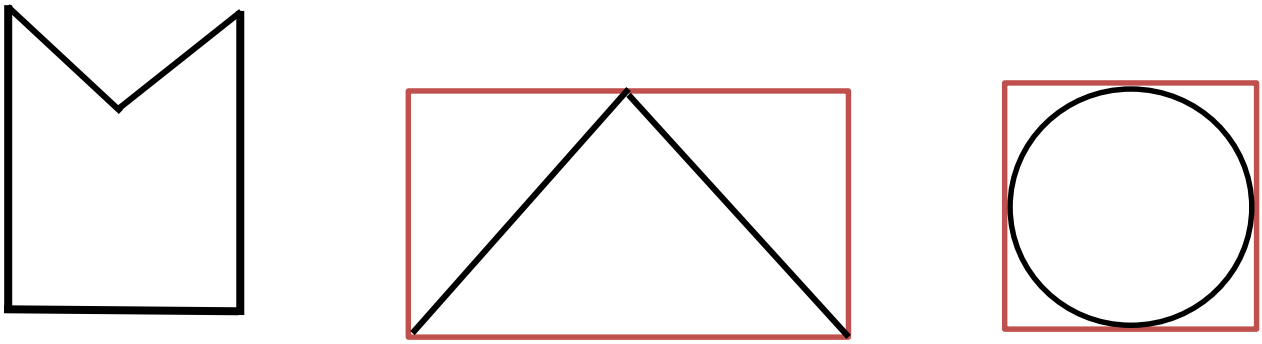

۴- کدام یک از شکل های زیر فقط یک گوشه ی راست دارد؟

الف)

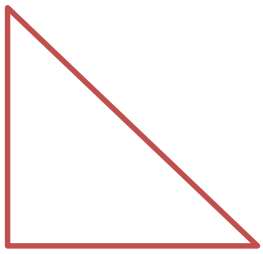

ب)

ج)

د)

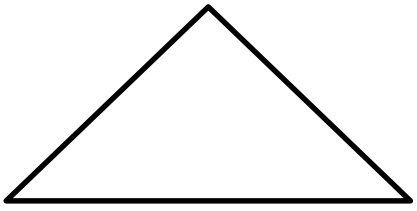





۱-یک قاشق فلزی را بر می داریم و به داخل آن نگاه می کنیم.تصویر در آن چگونه است؟

.....

.....

.....

۲-روی کلمه ی نادرست خط بکشید.

- وقتی ابرها به اندازه ی کافی (سرد-گرم)شوند از آن ها باران یا برف می بارد.
- مقدار آب های (شیرین-شور) روی کره ی زمین بیش تر است.
- بیش تر کره زمین را (آب ها-خشکی ها) فرا گرفته است.
- آینه بغل اتومبیل یک آینه (تخت-برآمده) است.

۳-کدام یک از اجسام زیر نور را به طور نامنظم بازتاب می کند؟

الف)آینه ○ ب)قاشق براق ○

ج)ورق آلومینیم صاف ○ د)دیوار ○



۱- با توجه به درس « ماه مهمانی خدا» در جاهای خالی کلمه های مناسب بنویسید.

- ماه بزرگ خدا ---------- نام دارد و خداوند در این ماه ---------- فراوانی به بندگانش می دهد.
- همه ی مسلمان پیش از اذان ---------- از خواب بر می خیزند و ---------- می خورند و اذان صبح تا اذان مغرب از خوردن و ---------- دوری می کنند.
- ثواب عبادت شب های ---------- از سایر شب های ماه رمضان بیشتر است.

۲-چه کسانی در ماه رمضان نمی توانند روزه بگیرند؟

۳-تسبیحات اربعه را در کدام یک از نمازهای یومیه می خوانیم؟

.....



۱-برای دام پروری به چه چیزهایی نیاز داریم؟

الف)آب ○ ب) خاک ○ ج)گیاهان ○ د) همه گزینه ها صحیح است ○

۲-منابع طبیعی به کدام گروه زیر گفته می شود؟

الف)آب و خاک ○ ب) گیاهان و جانوران ○

ج)نفت و فلزات ○ د) همه گزینه ها صحیح است ○

۳-کدام یک از مشاغل زیر کالا تولید می کنند و کدام یک خدماتی را ارائه می دهند؟با کشیدن خط به هم وصل کنید.

راننده تاکسی خیاط کارگر که تی می کشد نجار

خدمتی انجام می دهند ○ کالایی تولید می کنند ○

۴-هر یک از وسایل زیر از کدام منابع طبیعی تهیه می شود؟

نام کالا	نیمکت چوبی	پاک کن	مواد	قاشق فلزی
منابع				

خوشنویسی

پسرم کلمات زیر را به تحریر بنویس.

لوازم: ----------

گل: ----------

عقل: ----------

لادن: ----------

استقلال: ----------



چطور دست ها را بشوئیم؟

دست ها را فقط وقتی بشوئید که کثیف اند، وگرنه از دستمال استفاده کنید

مدت کل مراحل: ۴۰ تا ۶۰ ثانیه

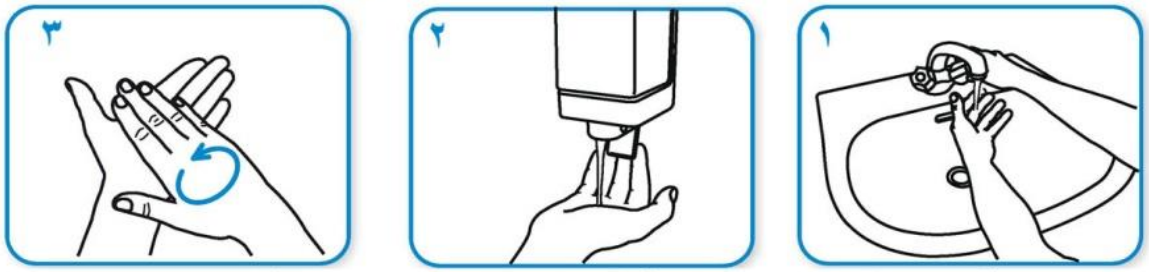

۱ دستها را با آب خیس کنید

۲ صابون کافی برای پوشاندن سطح دستهابردارید

۳ کف دست ها را به هم بمالید

۴ کف دست راست بر پشت دست چپ با انگشتهای درهم و بالعکس

۵ مالیدن کف دستها با انگشتهای درهم

۶ پشت انگشت ها را داخل کف دستها ببرید تا در هم قفل شوند

۷ مالش گردشی شست یک دست در داخل کف دست دیگر و بالعکس

۸ مالش های مدور و رفت و برگشتی با انگشتان بسته یک دست روی کف دست دیگر و بالعکس

۹ دستها را با آب شستشو دهید

۱۰ با یک دستمال حوله ای بطور کامل خشک کنید

۱۱ از همان دستمال برای بستن شیر آب استفاده کنید

۱۲ اکنون دستهای شما کاملا تمیز و مطمئن هستند

مهارت‌های زندگی

مسئولیت پذیری

هر کسی در خانه شما مسئولیّتی دارد. وقتی همه مسئولیت‌های خود را انجام دهند، همه کارها انجام خواهد شد. جملات زیر را بخوانید و اگر آن را شما انجام می‌دهید بنویسید من انجام می‌دهم و یک ستاره در سمت راست برای خود بگذارید. اگر کس دیگری در انجام این کار به شما کمک می‌کند، اسم او را هم بنویسید، مثلاً من و مادرم، و باز هم به خود یک ستاره بدهید. اگر کارهای دیگری را هم در خانه انجام می‌دهید که این‌جا نیامده است، آن‌ها را نیز اضافه کنید و به خود یک ستاره بدهید.

ستاره‌های من	کارهای خانه	چه کسی بیشتر مواقع آن را انجام می‌دهد
	کسی که وسایل من را مرتب می‌کند	
	کسی که به تلفن جواب می‌دهد	
	کسی که در را برای دیگران باز می‌کند	
	کسی که آشغال‌ها را بیرون می‌برد	
	کسی که چراغها را خاموش می‌کند	
	کسی که رختخواب من را مرتب می‌کند	
	کسی که صبحانه درست می‌کند	
	کسی که سفره را جمع می‌کند	
	کسی که ظرف‌ها را می‌شوید	
	کسی که خریدهای کوچک را انجام می‌دهد	
	کسی که از میهمانها پذیرایی می‌کند	
	کسی که کارهای شخصی من (مثل کوتاه‌کردن ناخن، حمام‌کردن و ...) را انجام می‌دهد	

معما و سرگرمی

پسر گلم برای ضرب عدد ۱۱ و۱۲ می توانی از بزرگترهایت کمک بگیری.